۲

سینماتیک ذرات

حرکت مستقیم‌الخط یک ذره

۲-۴ یک هواپیمای جت با سرعت فرود ۲۰۰ km/h پس از تماس با زمین، باندی به طول ماکزیمم ۶۰۰ m در اختیار دارد که در طی آن سرعتش را به ۳۰ km/h برساند. شتاب متوسط a هواپیما را در طی ترمز گرفتن حساب کنید.

$$v_1 = ۲۰۰\ \text{km/h} = \frac{۲۰۰}{۳/۶}\ \text{m/s} = ۵۵/۵۵\ \text{m/s}$$

$$v_2 = ۳۰\ \text{km/h} = \frac{۳۰}{۳/۶}\ \text{m/s} = ۸/۳۳\ \text{m/s}$$

$$x = ۶۰۰\ \text{m}$$

$$a_{ave} = ?$$

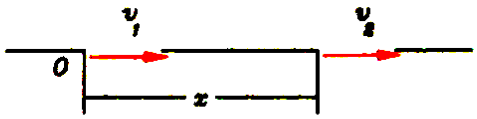

۴ دینامیک ذرات

حل:

$$\int_{x=0}^{x=600} a_{ave}\,dx = \int_{v_1=55.55}^{v_2=8.33} v\,dv$$

$$a_{ave}\,x\Big|_0^{600} = \frac{1}{2}\,v^2\Big|_{55.55}^{8.33}$$

$$600\,a_{ave} = \frac{1}{2}(8/33^2 - 55/55^2)$$

$$\boxed{a_{ave} = -2/51 \quad m/s^2}$$

۲-۵ درمراحل نهایی فرود مدول ماهنورد برسطح‌ماه، موتور فرود ماهنورد روشن شده و آن‌را تا ارتفاع $h = 5m$ پائین می‌آورد، درحالی که‌سرعتش دراین‌ارتفاع $4m/s$ می‌باشد. اگر دراین نقطه ناگهان‌موتور فرود از کاربیفتد سرعت برخورد پایه‌های فرودبا کره ماه چقدر است؟ شتاب جاذبه ماه ۱/۶ زمین است.

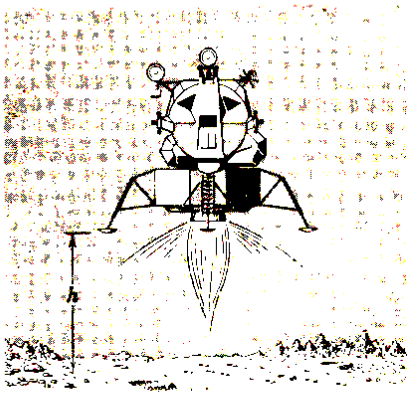

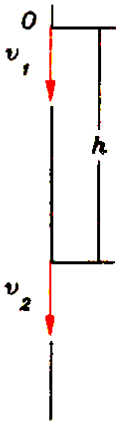

$h = 5$ m

$v_1 = 4$ m/s

حل:

جهت مثبت‌محور را به‌طرف مرکز کره ماه‌می گیریم. بنابراین شتاب ثقل g و h مثبت هستند.

$$a = \frac{1}{6}g = \frac{1}{6} \times 9/81 = 1/635 \ m/s^2$$

$$adh = vdv \rightarrow \int_{0}^{h-5} 1/635\, dh = \int_{v_1=4}^{v_2} vdv$$

$$1/635\, h\Big|_{0}^{5} = \frac{1}{2} v^2\Big|_{4}^{v_2} \rightarrow 1/635 \times 5 = \frac{1}{2}(v_2^2 - 4^2)$$

$$\boxed{v_2 = 5/68\ \mathrm{m/s}}$$

۲-۶ پرتابه‌ای با سرعت اولیه ۲۰۰ m/s به‌صورت قائم به‌طرف بالا پرتاب می‌شود. حداکثر ارتفاعی که پرتابه به‌آن می‌رسد چقدر بوده و چه‌زمانی طول می‌کشد تا به زمین برگردد؟ ازمقاومت هوا صرف نظر نموده و شتاب ثقل را برابر $9/81\ \mathrm{m/s^2}$ ثابت فرض کنید.

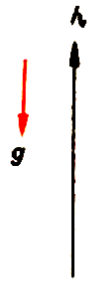

$v_1 = 200\ \mathrm{m/s}$

$v_2 = 0$ درنقطه اوج

$g = 9/81\ \mathrm{m/s^2}$

$h = ?$

$t = ?$

حل: جهت مثبت محور را به‌طرف بالامی‌گیریم. بنابراین g منفی می‌شود:

$$adh = vdv \rightarrow -gdh = vdv$$

$$\int_{0}^{h} -9/81\, dh = \int_{v_1=200}^{v_2=0} vdv \rightarrow \boxed{h = 2040\ \mathrm{m}}$$

و زمان به‌صورت زیرمحاسبه می‌شود:

$$adt = dv \rightarrow \int_{0}^{t} -gdt = \int_{v_1=200}^{v_2=0} dv$$

۶ دینامیک ذرات

$-۹/۸۱\,t = ۰ - ۲۰۰ \rightarrow$ زمان اوج $t_۱ = ۲۰/۴\ \text{s}$

زمان رفت و برگشت $t = ۲ \times t_۱ \rightarrow \boxed{t = ۴۰/۸\ \text{s}}$

۲-۷ دریك لوله قائم خلاء سرعت اولیه‌قائم $۳۰\ \text{m/s}$ به‌یك ذره داده می‌شود. صعود یا سقوط خالص ذره ازپایان اولین تا ابتدای چهارمین ثانیه حرکت راحساب نموده و سرعت‌آن را درپایان چهارمین ثانیه پس ازپرتاب به‌دست‌آورید.

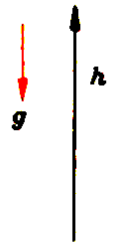

$v_۱ = ۳۰\ \text{m/s}$

$h_۱ =$ ارتفاع درثانیه یك

$h_۳ =$ ارتفاع درثانیه سه

$\Delta h = h_۳ - h_۱$

حل: جهت مثبت محور به‌طرف بالا و درنتیجه g منفی خواهد بود:

$$adt = dv \rightarrow \int_۰^t -gdt = \int_{v_۱}^{v} dv$$

$$-gt = v - v_۱ \rightarrow \boxed{v(t) = v_۱ - gt} \qquad (۱)$$

$$vdt = dh \rightarrow \int_۰^t (v_۱ - gt)dt = \int_۰^h dh$$

$$h = -\frac{۱}{۲}gt^۲ + v_۱ t$$

$$\Delta h = h_۳ - h_۱ = -\frac{۱}{۲} \times ۹/۸۱\,(۳^۲ - ۱^۲) + ۳۰(۳ - ۱)$$

$$\boxed{\Delta h = ۲۰/۷۶\ \text{m}}$$

$$(۱) \quad \rightarrow \quad v = -۹/۸۱ \times ۴ + ۳۰ \rightarrow \boxed{v = -۹/۲۴ \ \mathrm{m/s}}$$

علامت منفی بدین معنی است که ذره درخلاف جهت مثبت (رو به پائین) حرکت می‌کند.

۲-۸ نتایج تجربی حاصله ازحرکت یك ذره درامتداد خط مستقیم، مقادیر v را برحسب s مشخص‌نموده است. مطابق شکل، منحنی پیوسته‌ای این‌نقاط را دربرمی‌گیرد. شتاب ذره را به‌ازای $s = ۴۰\,\mathrm{m}$ تعیین‌کنید.

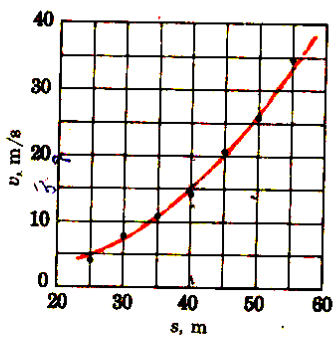

$a = ?$

$s = ۴۰\ \mathrm{m}$

حل:

$$a\,ds = v\,dv$$

$$a = v\frac{dv}{ds} \qquad (۱)$$

ازروی شکل‌در $s = ۴۰\ \mathrm{m}$ مقادیرسرعت و شیب منحنی (dv/ds) به‌دست‌می‌آید:

$$v = ۱۵\ \mathrm{m/s}$$

$$\frac{dv}{ds} = \frac{۲۰ - ۱۵}{۴۵ - ۴۰} = \frac{۵}{۵} = ۱$$

نتایج را در رابطه (۱) می‌گذاریم:

$$a = ۱۵ \times ۱$$

$$\boxed{a = ۱۵ \ \text{m/s}^۲}$$

۲-۹ یک نیروی کند کننده ضربه‌ای به‌مدت ۴ s بر ذره‌ای که‌سرعت اولیه‌اش ۱۰۰ m/s می‌باشد اثر می‌کند. شکل زیر منحنی تغییرات شتاب ذره‌را بر روی‌صفحه اسیلوسکوپ نشان می‌دهد. سرعت ذره را در $t = ۱۲$ s تخمین بزنید.

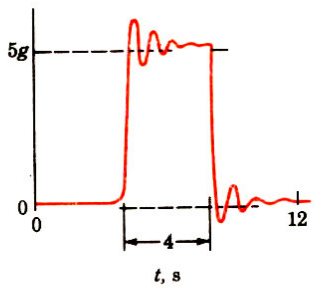

$\Delta t = ۴$ s

$v_۱ = ۱۰۰$ m/s

$v = ?$

$t = ۱۲$ s

حل:

$$\int_۰^{۱۲} a\,dt = \int_{v_۱=-۱۰۰}^{v} dv$$

$$\int_۰^{۱۲} a\,dt = \text{(باتقریب) سطح زیرمنحنی ازصفرتا ۱۲ ثانیه}$$

$$= -۵\,g \times ۴ = -۱۹۶/۲ \ \text{m/s}$$

$$-۱۹۶/۲ = v - ۱۰۰$$

$$\boxed{v = -۹۶/۲ \ \text{m/s}}$$

یعنی ذره با سرعت ۹۶/۲ m/s درجهت خلاف حرکت می‌کند.

۲-۱۰ درشکل منحنی تغییرات سرعت v ذره‌ای بـرحسب جابجایی s آن درقسمتی از حرکتش نشان داده شده است. سرعت v ذره رادر لحظه‌ای که $s = ۴۰\ m$ می‌باشد و درهرثانیه $۳۰ m/s$ ازسرعتش کاسته می گردد، حساب کنید.

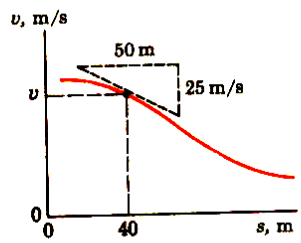

$a = -۳۰\ m/s^۲$

$s = ۴۰\ m$

$v = ?$

حل:

$$ads = vdv \rightarrow v = a\frac{ds}{dv} \qquad (۱)$$

حال از روی شکل شیب منحنی را در $s = ۴۰\ m$ به‌دست می‌آوریم:

$$\frac{ds}{dv} = \frac{۵۰}{-۲۵} = -۲\ \frac{m}{m/s}$$

این نتیجه را در رابطه (۱) می گذاریم:

$$v = -۳۰(-۲)\ m/s \rightarrow$$

$$v = ۶۰\ m/s$$

۲-۱۱ ذره‌ای درحرکت مستقیم‌الخط دارای سرعت $v = ۳۰۰ - ۷۵t^۲$ می‌باشد. اگر v بر حسب mm/s و t برحسب ثانیه باشد، مطلوب است محاسبه کل مسافت‌پیموده شده D درفاصله‌زمانی $t = ۰$ تا $t = ۳$ ثانیه و جابجایی خالص ذره درهمین فاصله زمانی.

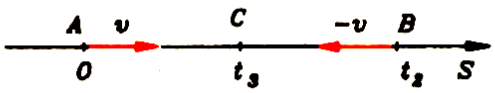

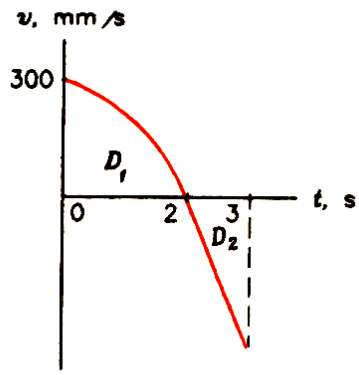

$t = ۳\ s$

$v = ۳۰۰ - ۷۵\, t^۲ \quad mm/s$

$D = ?$ مسافت کل

$s = ?$ جابه‌جایی خالص

حل:

$$v = ۰ \rightarrow ۳۰۰ - ۷۵t^۲ = ۰ \rightarrow t = ۲\ \ s$$

یعنی سرعت ذره در $t = ۲$ ثانیه صفر گردیده و به‌عبارت دیگر جهت حرکت از B به‌طرف A می‌شود.

$$D = AB + |BC| = D_۱ + D_۲ = \int_۰^{D_۱} ds + \int_۰^{D_۲} ds = \int_۰^{۲} (۳۰۰ - ۷۵\, t^۲)dt +$$

$$\left| \int_۲^{۳} (۳۰۰ - ۷۵t^۲)dt \right| = ۴۰۰ + ۱۷۵ \rightarrow \boxed{D = ۵۷۵\ mm}$$

برای محاسبه s هم می‌توان $D_۲$ را از $D_۱$ کم کرد وهم به‌طریق زیرعمل نمود:

$$\int_۰^{t} ds = \int_۰^{۳} (۳۰۰ - ۷۵t^۲)dt = ۳۰۰t - ۲۵t^۳ \Big|_۰^{۳} \rightarrow \boxed{s = ۲۲۵\ mm}$$

این مقدار برابر با مساحت خالص زیرمنحنی نمودار $v - t$ است.

۲-۱۲ جسمی درخط‌مستقیم با سرعتی‌حرکت‌می‌نماید که مجذورآن مطابق‌شکل به‌صورت خطی باجابجایی s کاهش می‌یابد. زمان لازمه t جهت پیمودن ۲۰۰m را تعیین نموده و مسافت پیموده شده درطی ۳ ثانیه‌آخرماقبل توقف رابه‌دست‌آورید.

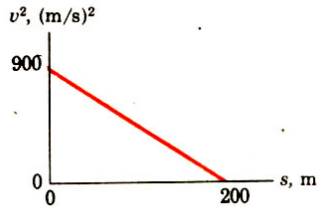

$$\left| \begin{array}{l} t=? \\ s=۲۰۰ \ \text{m} \end{array} \right.$$

$$\left| \begin{array}{l} \Delta s=? \\ \text{۳ ثانیه آخر} \end{array} \right.$$

حل: ابتدا باید معادله خط $v^۲-s$ را به‌دست آوریم: $y-y_۱=m(x-x_۱)$

$$y\equiv v^۲ \qquad x\equiv s \qquad \left| \begin{array}{l} x_۱=۰ \\ y_۱=۹۰۰ \end{array} \right. \qquad m=-\frac{۹۰۰}{۲۰۰}=-۴/۵$$

$$v^۲-۹۰۰=-۴/۵\,s \rightarrow v=\sqrt{-۴/۵\,s+۹۰۰}$$

حال از رابطه $vdt=ds$ استفاده می‌کنیم:

$$\sqrt{-۴/۵\,s+۹۰۰}\,dt=ds \rightarrow \int_۰^t dt=\int_۰^{۲۰۰}\frac{ds}{\sqrt{-۴/۵\,s+۹۰۰}}$$

$$\rightarrow \boxed{t=۱۳/۳۳ \ \text{s}}$$

برای محاسبه مسافت ۳ ثانیه آخر، مسافت ثانیه ۱۰/۳۳ را از مسافت ثانیه ۱۳/۳۳ که همان ۲۰۰ m باشد کم می‌کنیم. رابطه $s-t$ از انتگرال نامعین بالا به‌دست می‌آید:

$$\left| \begin{array}{l} s=? \\ t=۱۰/۳۳ \end{array} \right. \rightarrow ۱۰/۳۳=\frac{۲\sqrt{-۴/۵\,s+۹۰۰}}{-۴/۵}\Bigg|_۰^{s_{۱۰/۳۳}} \rightarrow s_{۱۰/۳۳}=۱۹۰\text{m}$$

$$\Delta s=s_{۱۳/۳۳}-s_{۱۰/۳۳}=۲۰۰-۱۹۰ \rightarrow \boxed{\Delta s=۱۰ \ \text{m}}$$

۲-۱۳ گلوله‌ای باسرعت اولیه نه‌چندان زیاد v_0 به‌داخل یك ماده انرژی‌گیر که مقاومتش درمقابل حرکت متناسب با سرعت گلوله است به‌صورت افقی شلیك می‌شود. شتاب گلوله درامتداد حرکت $a=-kv$ می‌باشد، که درآن k ثابتی وابسته به‌خواص ماده انرژی‌گیر و شکل گلوله است. رابطه‌ای پیدا کنید که مسافت پیموده شده s راقبل ازتوقف برحسب v_0 و k بیان کند. همچنین زمان لازمه t جهت رسیدن به یك دوم سرعت اولیه را محاسبه نمائید.

$a=-kv$

$k=$ ثابت

$$\begin{cases} s=f(v_0,\ k)=? \\ v=0 \end{cases}$$

$$\begin{cases} t=? \\ v=v_0/2 \end{cases}$$

حل:

$$a\,ds=v\,dv$$

$$-kv\,ds=v\,dv \rightarrow -k\int_0^s ds=\int_{v_0}^0 dv \rightarrow \boxed{s=\frac{v_0}{k}}$$

$$a\,dt=dv \rightarrow -kv\,dt=dv$$

$$-k\int_0^t dt=\int_{v_0}^{v_0/2}\frac{dv}{v} \rightarrow \boxed{t=\frac{0/693}{k}}$$

۲-۱۴ پرتابه‌ای با سرعت‌اولیه افقی v_1 به‌داخل‌ماده‌مقاومی شلیك‌شده‌وشتاب کند شونده‌ای مساوی با cv^n به‌دست می‌آورد، درحالی‌که c و n ثابت‌بوده و v سرعت پرتابه‌در داخل‌ماده می‌باشد. رابطه سرعت v پرتابه رابرحسب زمان نفوذ t بیان کنید.

$v_1=$ سرعت اولیه

$a=-cv^n$

$c,\ n=$ ثابت

$v = f(t) = ?$

حل:

$$dv = a\,dt$$

$$dv = -cv^n dt$$

$$\int_{v_1}^{v} \frac{dv}{cv^n} = -\int_0^t dt$$

$$\frac{1}{c}\int_{v_1}^{v} v^{-n} dv = -t$$

$$\frac{1}{c}\,\frac{1}{1-n}\,v^{1-n}\Big|_{v_1}^{v} = -t$$

$$\boxed{v = [v_1^{\,1-n} + ct(n-1)]^{\frac{1}{1-n}}}$$

۲-۱۵ مطابق شکل پرتابه‌ای به‌صورت افقی به داخل سیالی شلیك می‌شود. جابجایی افقی x پرتابه برحسب‌مترنسبت به‌زمان متناظر t برحسب میلی‌ثانیه اندازه گیری شده‌و درجدول زیرا ارائه گردیده است. سرعت v وشتاب a را در $t = ۳$ میلی‌ثانیه‌در امتداد x تخمین‌بزنید.مسئله را به‌روش ترسیمی با رسم منحنی پیوسته تغییرات حل نمائید.



$v = ?$

$a = ?$

$t = ۳$ ms

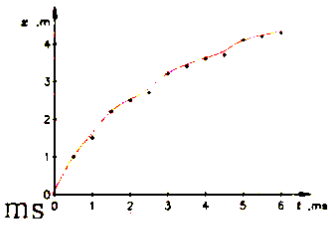

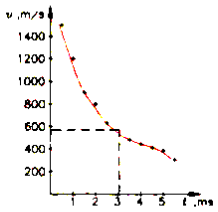

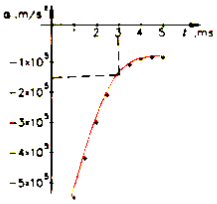

: منحنی‌نمایش $s-t$ و بعد $v-t$ را از روی $s-t$ به‌دست می‌آوریم. سپس با داشتن روابط‌مربوطه ($v = ds/dt$ و $a = dv/dt$) مقادیرخواسته‌شده به‌دست می‌آید.

$$\boxed{v = ۵۵۰ \quad \text{m/s}}$$

$$\boxed{a = -۱۴۰ \ \mathrm{km/s^۲}}$$

۲-۱۶ تعدادی گلوله کوچك فولادی یکی پس ازدیگری ازحالت سکون به‌داخل روزنه‌ای سقوط می‌کنند. تواترثـابت سقوط n می‌باشد. ازمقاومت هوا صرف‌نظر نموده و فاصله قائم h بین هردوگلوله را برحسب زمان t که‌درطی آن گلوله فوقانی سقوط می‌کند بیان کنید.

زمان تناوب یا فاصله زمانی بین سقوط دوگلوله $\tau = \frac{۱}{n}$

$$h_۱ = \frac{۱}{۲} g t^۲$$

$$h_۲ = \frac{۱}{۲} g (t+\tau)^۲$$

حل:

$$h = h_۲ - h_۱ = \frac{۱}{۲} g (t^۲ + \tau^۲ + ۲t\tau - t^۲)$$

$$= \frac{۱}{۲} g (\tau^۲ + ۲t\tau)$$

$$= \frac{۱}{۲} g \left(\frac{۱}{n^۲} + \frac{۲t}{n}\right)$$

$$= \frac{۱}{۲} g \left(\frac{۱ + ۲tn}{n^۲}\right)$$

$$\boxed{h = \frac{g}{۲n^۲}(۲tn + ۱)}$$

۲-۱۷ بین دوایستگاه به فاصله ۸ km از یکدیگر، یك تونل انتقال سریع خالی ازهوا (این مسئله درتکنولـوژی‌آینده فـرض می‌شود) احـداث گردیـده و قرار است کپسول حمل و نقل مناسبی جهت استفاده دراین تونل طراحی گردد. اگرحداکثر شتابهای حدی کندشونده وتندشونده ۰/۷g وسرعت حدی کپسول ۴۰۰ km/h باشد، حداقل زمان طی کردن تونل توسط کپسول چقدراست؟